POLÍGONOS

1. Rodea las figuras que sean plígonos.

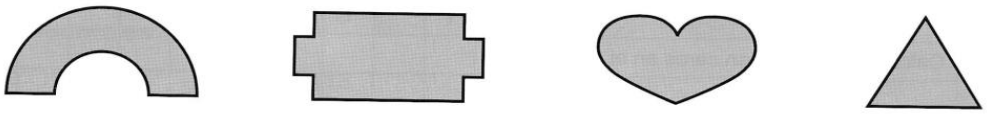

2. Repasa según se indica y luego completa.

azul ⇨ lados

rojo ⇨ vértices

verde ⇨ ángulos

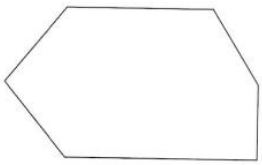

- Número de lados ▶ _____
- Número de ángulos ▶ _____
- Número de vértices ▶ _____

3. Observa los polígonos y completa la tabla.

	Triángulo n.º _____	Cuadrilátero n.º _____	Pentágono n.º _____	Hexágono n.º _____
Número de lados				
Número de vértices				
Número de ángulos				

4. Escribe el nombre de cada polígono

1.

.....

4.

.....

7.

.....

2. 

.....

5.

.....

8. 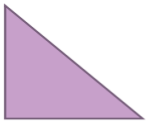

.....

3.

.....

6. 

.....

9.

.....

1. **Relaciona cada figura con su nombre.**

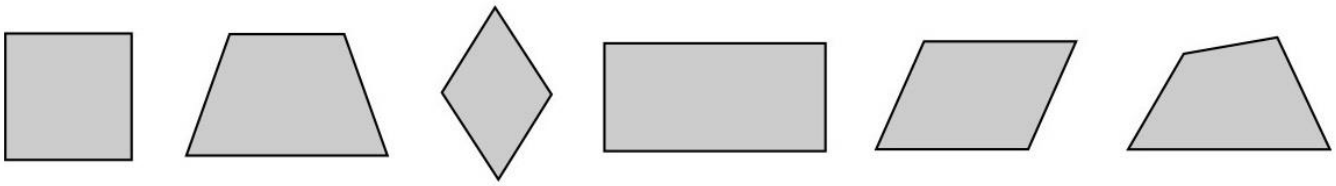

trapezoide	trapecio	cuadrado	rectángulo	rombo	romboide

2. **Completa la tabla.**

	Número de lados paralelos	Número de ángulos iguales	Número de ángulos rectos	Nombre
				
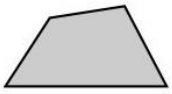				

¡RECUERDA! UN ÁNGULO RECTO ES EL QUE MIDE JUSTO 90 GRADOS. LO QUE LE LLAMAMOS LA “L” PERFECTA.