MEDIDAS DE TIEMPO

1 Sabiendo que la Tierra tarda un día, es decir, 24 horas en dar una vuelta sobre sí misma, averigua las horas que tardará la Tierra en dar:

2 vueltas → 24 × 2 horas = 48 horas
3 vueltas → 24 × ..... horas = ... horas
4 vueltas → ..... horas = ... horas
5 vueltas → ..... horas = ... horas
10 vueltas → ..... horas = ... horas

2 La Tierra tarda un año en dar una vuelta alrededor del Sol. Sabiendo que un año tiene 365 días, calcula los días que tardará en dar:

2 vueltas alrededor del Sol = ... días
3 vueltas alrededor del Sol = ... días
4 vueltas alrededor del Sol = ... días

3 Una semana tiene 7 días. Calcula los días que hay en:

2 semanas → 7 × 2 = 14 días
3 semanas → 7 × ..... = ...
5 semanas → ..... = ...
10 semanas → ..... = ...

4 Sabiendo que un día tiene 24 horas, averigua las horas que hay en:

2 días = ... horas	6 días = ... horas
3 días = ... horas	7 días = ... horas
4 días = ... horas	8 días = ... horas
5 días = ... horas	9 días = ... horas

5 Cada minuto tiene 60 segundos. Calcula los segundos que hay en:

7 minutos = ... segundos
9 minutos = ... segundos
1 hora = ... segundos
2 horas = ... segundos
1 día = ... segundos

6 Adivina qué hora es:

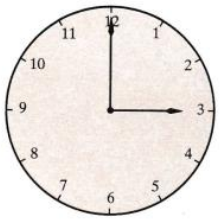
Son las: .....

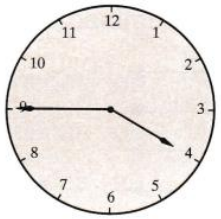
Son las: .....

Son las: .....

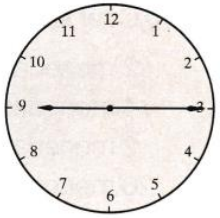
Son las: .....

7 Representa en cada reloj la hora indicada.

La 1 y media

Las 7 menos cuarto

Las 5 y veinte

:
Las 8 menos veinticinco de la mañana

:
Las 10 en punto de la noche

:
Las 2 y diez de la tarde