MATRÍCULAS

A Pedro le encanta ver las matrículas de los coches que ve por la carretera o por las calles de su pueblo. Siempre juega con los números, es algo que le gusta mucho.

1. **Escribe con cifra la matrícula del coche del abuelo de Pedro.**
   - **Nueve mil treinta.**

   - **¿Qué número será la matrícula anterior a la del coche del abuelo de Pedro?**

2. **Pedro ha visto un coche en el garaje de su abuelo. ¿Cuál es el número de la matrícula?**

A. Dos mil novecientos cuatro
B. Dos mil novecientos sesenta y cuatro
C. Veintinueve mil sesenta y cuatro
D. Veintinueve mil seiscientos cuatro

3. **Completa el recuadro que está en blanco y sabrás cuántos kilómetros marca el cuentakilómetros del coche del abuelo:**

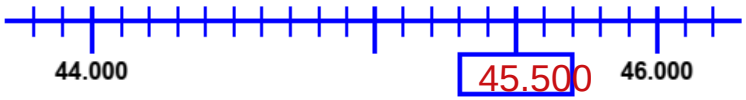

4. **Ordena de mayor a menor los números de las matrículas de estos coches.**



39.093	35.469	29.064	9.033
El número mayor	El siguiente	El siguiente	El número menor

5. **Escribe la matrícula de este coche teniendo en cuenta que:**

- Es un número de 4 cifras
- La cifra de las decenas es 3
- La cifra de los millares es el doble que las decenas
- Las otras cifras son 1

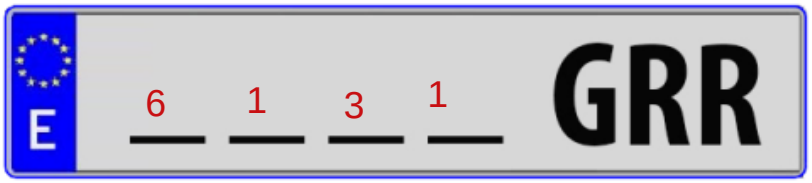

6. **Completa esta serie:**

7650	7.750	**7850**	7.950	8.050 ....

7. **Completa los huecos vacíos en la siguiente resta:**

$$\begin{array}{r} 3\ 2\ 9\ \boxed{8} \\ -\quad \boxed{7}\ 1\ 5 \\ \hline \boxed{2}\ 5\ \boxed{8}\ 3 \end{array}$$

12. **La profesora ha escrito en la pizarra las siguientes descomposiciones numéricas. ¿Cuál es la correcta?**

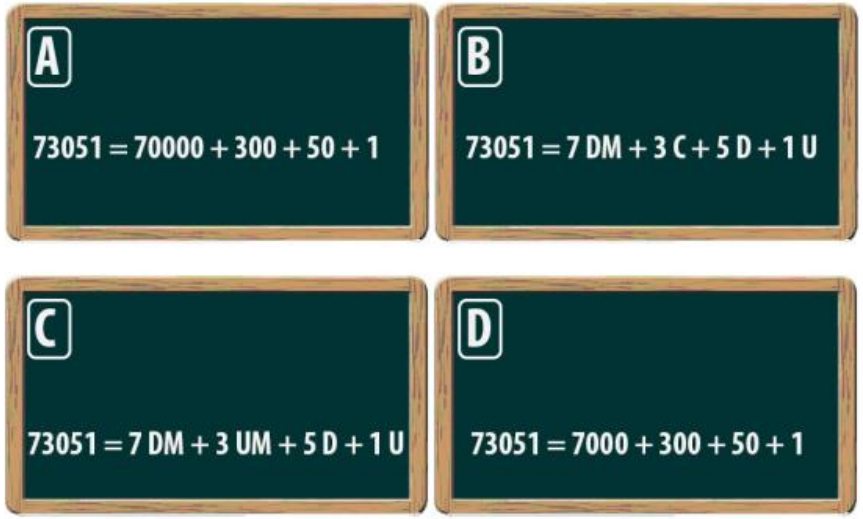

A. La de la pizarra A

B. La de la pizarra B

C. La de la pizarra C

D. La de la pizarra D