MEDIDAS DE TIEMPO

1 Sabiendo que la Tierra tarda un día, es decir, 24 horas en dar una vuelta sobre sí misma, averigua las horas que tardará la Tierra en dar:

2 vueltas → 24 × 2 horas = 48 horas
3 vueltas → 24 × 3 horas = 72 horas
4 vueltas → 24 x 4 horas = 96 horas
5 vueltas → 24 x 5 horas = 120 horas
10 vueltas → 24 x 10 horas = 240 horas

2 La Tierra tarda un año en dar una vuelta alrededor del Sol. Sabiendo que un año tiene 365 días, calcula los días que tardará en dar:

2 vueltas alrededor del Sol = 365x2= 730 días
3 vueltas alrededor del Sol = 365x3 = 1.095 días
4 vueltas alrededor del Sol = 365x4 = 1.460 días

3 Una semana tiene 7 días. Calcula los días que hay en:

2 semanas → 7 × 2 = 14 días
3 semanas → 7 × 3 = 21 días
5 semanas → 7 x 5 = 35 días
10 semanas → 7 x 10 = 70 días

4 Sabiendo que un día tiene 24 horas, averigua las horas que hay en:

2 días = 24 x 2= 48 horas
3 días = 24 x 3 = 72 horas
4 días = 24 x 4 = 96 horas
5 días = 24 x 5 = 120 horas
6 días = 24 x 6 = 144 horas
7 días = 24 x 7 = 168 horas
8 días = 24 x 8 = 192 horas
9 días = 24 x 9 = 216 horas

5 Cada minuto tiene 60 segundos. Calcula los segundos que hay en:

7 minutos = 60 x 7= 420 segundos
9 minutos = 60 x 9 = 540 segundos
1 hora = 60 x 60= 3.600 segundos
2 horas = 3.600 x 2 = 7.200 segundos
1 día = 3.600 x 24 = 86.400 segundos

6 Adivina qué hora es:

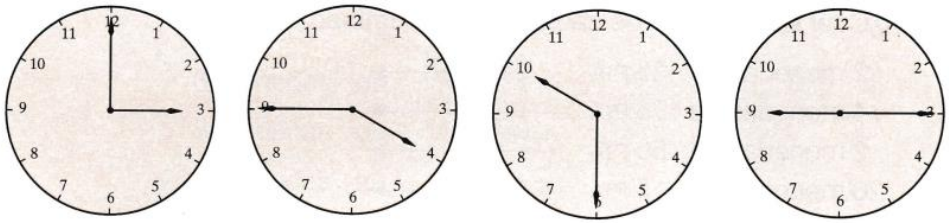

Son las: 3 en punto
Son las: 4 menos cuarto
Son las: 10 y media
Son las: nueve y cuarto

7 Representa en cada reloj la hora indicada.



La 1 y media

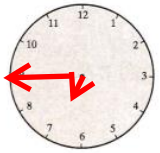

Las 7 menos cuarto

Las 5 y veinte

07 : 35

Las 8 menos veinticinco de la mañana

22 : 00

Las 10 en punto de la noche

14 : 10

Las 2 y diez de la tarde