1 Viaje en tren

Nombre _____ Fecha _____

NUESTRO VIAJE EN TREN

Lucía y Sergio no han viajado nunca en tren. Sus padres han decidido realizar un viaje a la ciudad para pasar el día y han escogido el tren como medio de transporte. Así, Lucía y Sergio podrán descubrir cómo funciona.

1 Observa la hora a la que salen los trenes todos los días desde donde vive la familia de Lucía hasta la ciudad.



a) ¿A qué hora cogerán el tren? Las 11 menos veinticinco

b) Salen de su casa 35 minutos antes de que salga el tren.

¿A qué hora han salido de casa? A las 10 en punto

c) Suben al tren 10 minutos antes de que salga.

¿A qué hora se han subido al tren? A las 10 y veinticinco.

2 El tren tarda 1 hora y 30 minutos en llegar a la ciudad. Rodea el reloj que marca la hora de llegada.

3 Unos días antes de realizar el viaje, Lucía ha ido con su padre a comprar los billetes de tren.



PRECIO DE LOS BILLETES

- Billete de ida para niños: 23 €
- Billete de vuelta para niños: 23 €
- Billete de ida para adultos: 38 €
- Billete de vuelta para adultos: 38 €
- Billete de ida y vuelta para niños: 40 €
- Billete de ida y vuelta para adultos: 69 €

• Rodea los billetes y monedas necesarios para pagar un billete de ida para un niño.

• Fíjate en estos billetes y monedas:

¿Qué monedas les faltan para pagar un billete de vuelta para un adulto?

1 de 5 céntimos, 2 de 20 céntimos y 2 de 2 euros.

4 Han decidido comprar dos billetes de ida y vuelta de adultos y dos billetes también de ida y vuelta de niños. ¿Cuánto pagan por todos los billetes?

(pueden ser otras operaciones)

$$\begin{array}{r} 40 \\ +\ 69 \\ \hline 109 \end{array} \qquad \begin{array}{r} 109 \\ \times\ \ 2 \\ \hline 218 \end{array}$$

Respuesta razonada

Pagan 218 Euros por todos los billetes

5 El tren en el que viajan Lucía y su familia debe recorrer 97 km.
¿Qué distancia les queda para llegar a su destino?

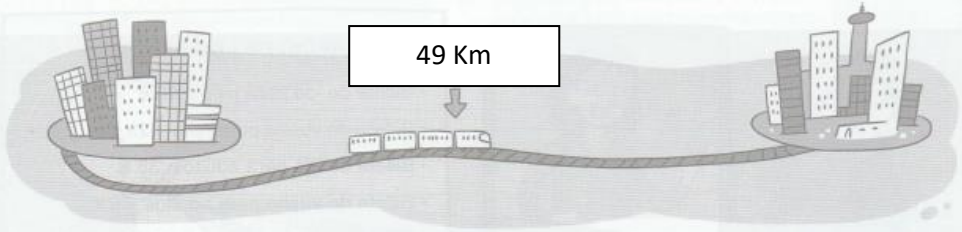

97
- 49
48

Respuesta razonada

Les queda para llegar 48 km.

6 Al llegar a la ciudad han decidido visitar el museo de la ciudad.

Observa el horario y contesta a estas preguntas:

a) ¿Qué día de la semana no abre el museo? Los lunes, el 25 de diciembre y el 1 de enero.

b) ¿Cuál es el horario de apertura del museo de martes a jueves?
De 10:000 a 20:00 horas.

c) ¿Qué días abre el museo solo de 10 de la mañana a 3 de la tarde?
El 24 y el 31 de diciembre.

d) ¿Abre el día 24 de diciembre? ¿Hasta qué hora?
Sí, abre hasta las 3 de la tarde.