1 Vacaciones en familia

Nombre _____ Fecha _____

1 Para las siguientes frases escribe V (verdadera) o F (falsa).

F ☐ Van de vacaciones 6 personas.

V ☐ Van de vacaciones 3 niños y 6 adultos.

V ☐ Van de vacaciones 9 personas.

2 Álvaro ha pasado por una tienda de chuches y ha comprado cuatro bolsas con tres piruletas cada una. ¿Cuántas piruletas ha comprado?

☐ 10 piruletas

X ☐ 12 piruletas

☐ 14 piruletas

3 Al reservar los billetes de tren, les han dado esta información sobre el precio de cada billete:

c) Si deciden comprar los billetes para todos, ¿cuánto les cuestan? (Hay diferentes caminos)

10 X 6 = 60 €
5 X 3 = 15 €
60 + 15 = 75 €

Respuesta razonada

En total les cuestan 75 euros.

d) ¿Cuánto pagan todos los adultos más que los niños?

Antes hemos calculado:
Los adultos pagan: 60€
Los niños 15 €

$$\begin{array}{r} 60 \\ -\ 15 \\ \hline 45 \end{array}$$

Respuesta razonada

Los adultos pagan 45 euros más que los niños.

4 De las siguientes opciones, elige cuánto gastará cada familia en los billetes de tren.

Razona la respuesta.

☐ Gastará 15 €.

X ☐ Gastará 25 €.

☐ Gastará 50 €.

Respuesta razonada

Cada familia son 2 adultos y un niño.
10 x 2 = 20 €
5 x 1 = 5 €
20 + 5 = 25 €

5 **Cuando las familias han llegado al hotel se han encontrado con un gráfico donde se indican las actividades que pueden realizar y el precio por persona de cada una de ellas.**

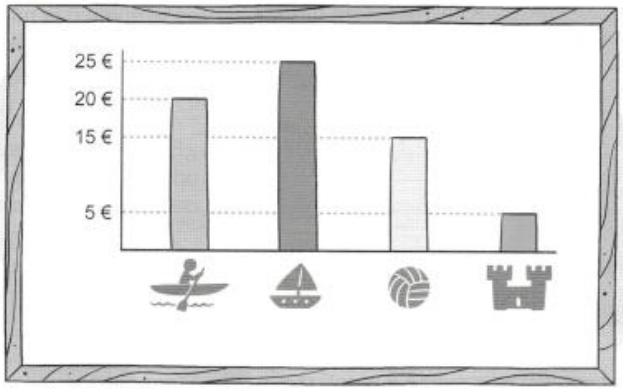

Observa los datos del gráfico y contesta a las siguientes preguntas:

a) Ana se inscribe en piragüismo y castillos en la arena. ¿Cuánto tiene que pagar?

20 + 5 = 25 euros tiene que pagar.

b) Pablo y su padre se inscriben en paseo en barco y vóley-playa. ¿Cuánto tienen que pagar?

25 + 15 = 40 euros cada uno. / 40 x 2 = 80 euros en total.

c) ¿En qué dos actividades se habrá inscrito Álvaro si paga 45 €?

En paseo en barco y en piragüismo.

d) Si tienes 40 euros, ¿A qué actividad o actividades te gustaría apuntarte?

_____

_____¿Te has gastado todo el dinero en las actividades?

_____¿Cuánto dinero te ha sobrado?_____

Respuesta libre.

6 **Para la actividad de castillos en la arena los monitores han hecho el siguiente dibujo en el suelo:**

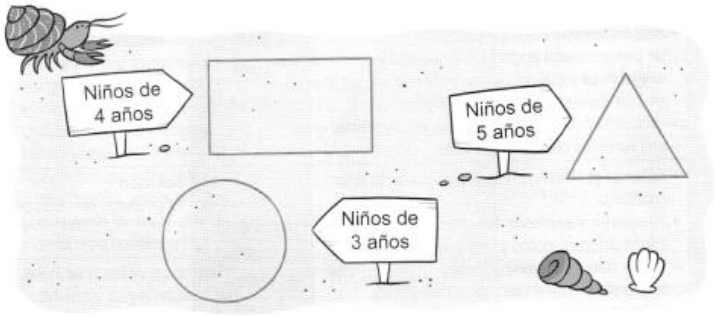

Observa el dibujo y contesta a las siguientes preguntas:

a) ¿Qué forma tiene el espacio donde hacen los castillos los niños de 3 años?

Tiene forma de circunferencia.

b) El polígono donde hacen los castillos los niños de 4 años, ¿es un cuadrilátero?

Sí es un cuadrilátero, porque tiene 4 lados.

c) ¿Cuántos lados tiene la figura donde hacen los castillos los niños de 5 años? ¿Cuántos vértices? ¿Cómo se llama esta figura?

Tiene 3 lados y 3 vértices. Se llama triángulo.

7 **Al final del paseo marítimo hay un delfinario. Esta semana lo han visitado 2.500 personas.** Pero la semana pasada lo visitaron el doble de personas que esta semana. ¿Cuántas personas lo visitaron la semana pasada?



2.500
x 2
5.000

Respuesta razonada

La semana pasada lo visitaron 5.000 personas.

• ~~¿Cuántos son adultos?~~ Esta pregunta no va aquí.