1 Viaje en tren

Nombre _____ Fecha _____

NUESTRO VIAJE EN TREN

Lucía y Sergio no han viajado nunca en tren. Sus padres han decidido realizar un viaje a la ciudad para pasar el día y han escogido el tren como medio de transporte. Así, Lucía y Sergio podrán descubrir cómo funciona.

1 Observa la hora a la que salen los trenes todos los días desde donde vive la familia de Lucía hasta la ciudad.



a) ¿A qué hora cogerán el tren? _____

b) Salen de su casa 35 minutos antes de que salga el tren.

¿A qué hora han salido de casa? _____

c) Suben al tren 10 minutos antes de que salga.

¿A qué hora se han subido al tren? _____

2 El tren tarda 1 hora y 30 minutos en llegar a la ciudad. Rodea el reloj que marca la hora de llegada.

3 Unos días antes de realizar el viaje, Lucía ha ido con su padre a comprar los billetes de tren.



PRECIO DE LOS BILLETES

- Billete de ida para niños: 23 €
- Billete de vuelta para niños: 23 €
- Billete de ida para adultos: 38 €
- Billete de vuelta para adultos: 38 €
- Billete de ida y vuelta para niños: 40 €
- Billete de ida y vuelta para adultos: 69 €

• Rodea los billetes y monedas necesarios para pagar un billete de ida para un niño.

• Fíjate en estos billetes y monedas:

¿Qué monedas les faltan para pagar un billete de vuelta para un adulto?

_____

4 Han decidido comprar dos billetes de ida y vuelta de adultos y dos billetes también de ida y vuelta de niños. ¿Cuánto pagan por todos los billetes?



Respuesta razonada

_____

_____

_____

5 **El tren en el que viajan Lucía y su familia debe recorrer 97 km. ¿Qué distancia les queda para llegar a su destino?**

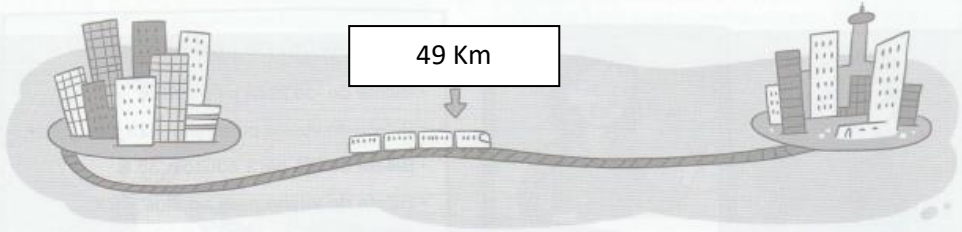

Respuesta razonada

6 **Al llegar a la ciudad han decidido visitar el museo de la ciudad.**

Observa el horario y contesta a estas preguntas:

a) ¿Qué día de la semana no abre el museo?

b) ¿Cuál es el horario de apertura del museo de martes a jueves?

c) ¿Qué días abre el museo solo de 10 de la mañana a 3 de la tarde?

d) ¿Abre el día 24 de diciembre? ¿Hasta qué hora?