1 Vacaciones en familia

Nombre _____ Fecha _____

1 Para las siguientes frases escribe V (verdadera) o F (falsa).

- ☐ Van de vacaciones 6 personas.
- ☐ Van de vacaciones 3 niños y 6 adultos.
- ☐ Van de vacaciones 9 personas.

2 Álvaro ha pasado por una tienda de chuches y ha comprado cuatro bolsas con tres piruletas cada una. ¿Cuántas piruletas ha comprado?

- ☐ 10 piruletas
- ☐ 12 piruletas
- ☐ 14 piruletas

3 Al reservar los billetes de tren, les han dado esta información sobre el precio de cada billete:

c) Si deciden comprar los billetes para todos, ¿cuánto les cuestan?

Respuesta razonada

_____

_____

_____

_____

d) ¿Cuánto pagan todos los adultos más que los niños?

Respuesta razonada

_____

_____

_____

_____

4 De las siguientes opciones, elige cuánto gastará cada familia en los billetes de tren.

Razona la respuesta.

- ☐ Gastará 15 €.
- ☐ Gastará 25 €.
- ☐ Gastará 50 €.

Respuesta razonada

_____

_____

5 **Cuando las familias han llegado al hotel se han encontrado con un gráfico donde se indican las actividades que pueden realizar y el precio por persona de cada una de ellas.**

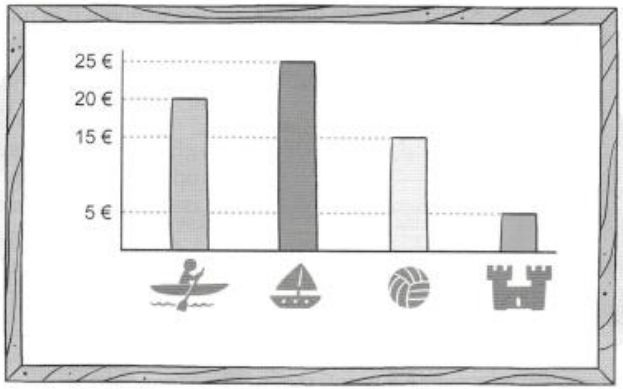

Observa los datos del gráfico y contesta a las siguientes preguntas:

a) Ana se inscribe en piragüismo y castillos en la arena. ¿Cuánto tiene que pagar?

_____

b) Pablo y su padre se inscriben en paseo en barco y vóley-playa. ¿Cuánto tienen que pagar?

_____

c) ¿En qué dos actividades se habrá inscrito Álvaro si paga 45 €?

_____

d) Si tienes 40 euros, ¿A qué actividad o actividades te gustaría apuntarte?

_____

_____¿Te has gastado todo el dinero en las actividades?

_____¿Cuánto dinero te ha sobrado?_____

6 **Para la actividad de castillos en la arena los monitores han hecho el siguiente dibujo en el suelo:**

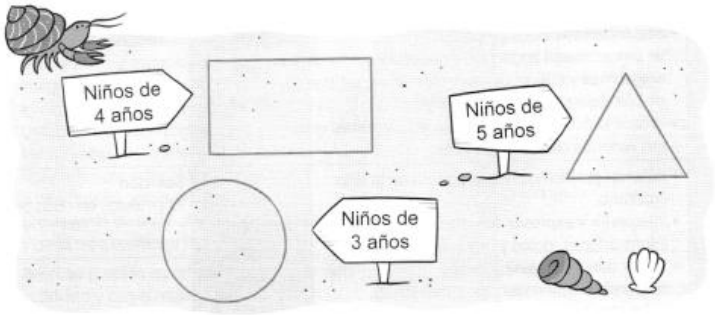

Observa el dibujo y contesta a las siguientes preguntas:

a) ¿Qué forma tiene el espacio donde hacen los castillos los niños de 3 años?

_____

b) El polígono donde hacen los castillos los niños de 4 años, ¿es un cuadrilátero?

_____

c) ¿Cuántos lados tiene la figura donde hacen los castillos los niños de 5 años? ¿Cuántos vértices? ¿Cómo se llama esta figura?

_____

7 **Al final del paseo marítimo hay un delfinario. Esta semana lo han visitado 2.500 personas.** Pero la semana pasada lo visitaron el doble de personas que esta semana. ¿Cuántas personas lo visitaron la semana pasada?





Respuesta razonada

_____

_____

_____

_____

• ¿Cuántos son adultos? _____