GEOMETRÍA

1. Escribe el nombre de cada polígono.

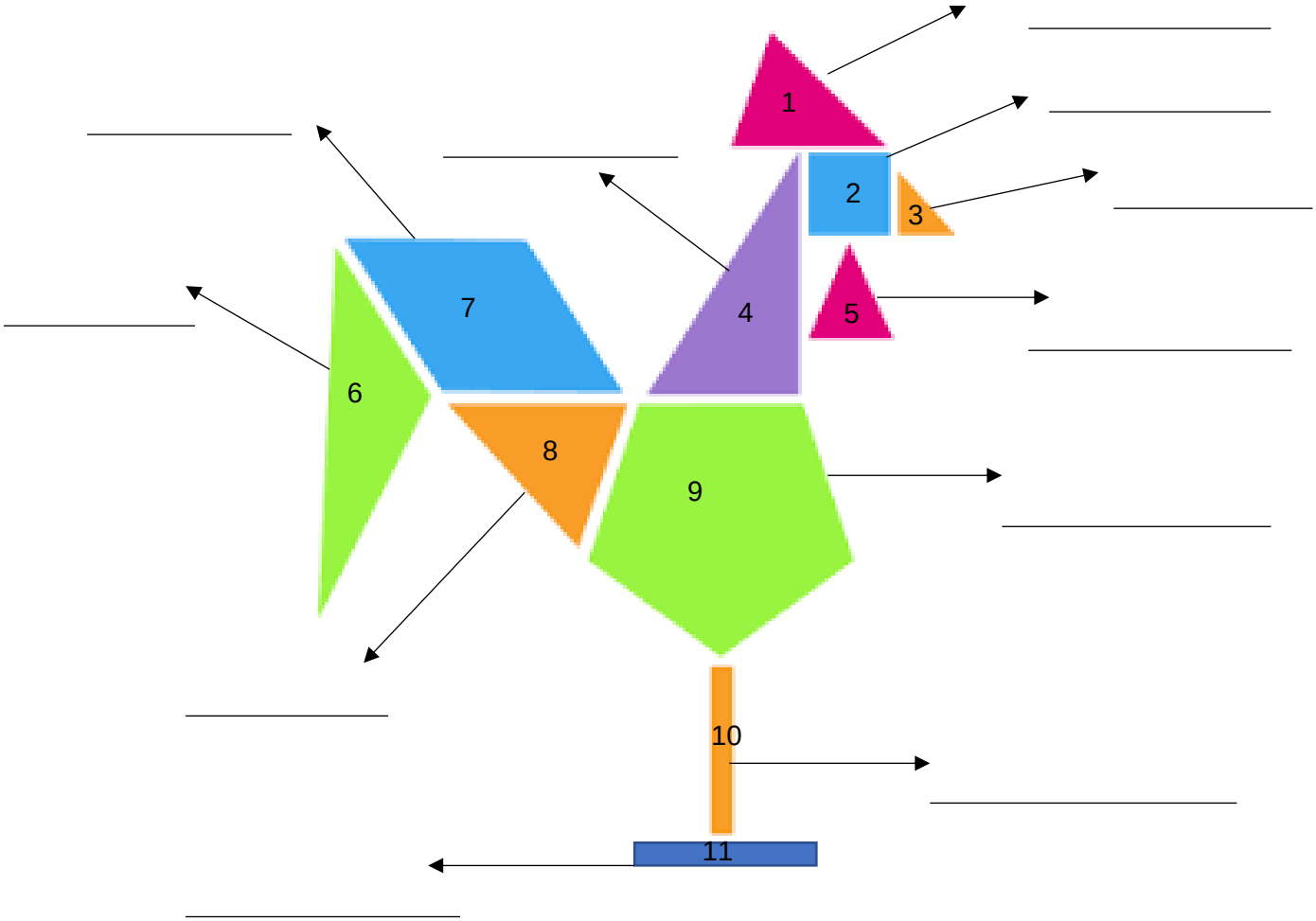

2. ¿Qué figuras son triángulos rectángulos? _____

3. Dibuja de rojo una semirrecta que mida 6 cm y de verde un segmento que mida el doble.

4. Indica qué tipo de ángulo es cada uno.

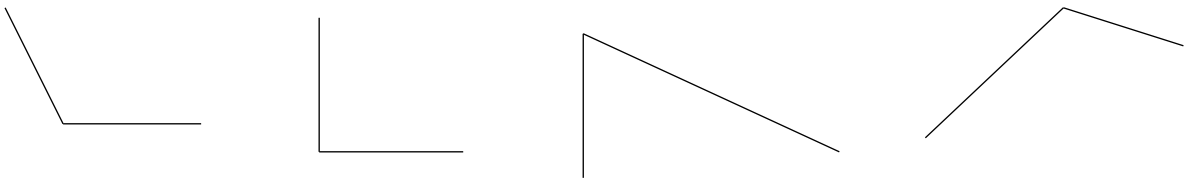

TANGRAM

El tangram significa rompecabezas chino. Es un conjunto de polígonos que se utilizan para formar figuras. Crea tu propio tangram para que puedas practicar.

1. Colorea y recorta los polígonos, obteniendo así las piezas de este rompecabezas. Si quieres que tus piezas sean más resistentes, antes de recortar pega el cuadrado con las piezas en un cartón o en una cartulina.
2. Intenta formar las figuras que aparecen a la derecha.
3. Puedes buscar más imágenes en internet.