LAS UNIDADES DE LONGITUD

1 Escribo las medidas.

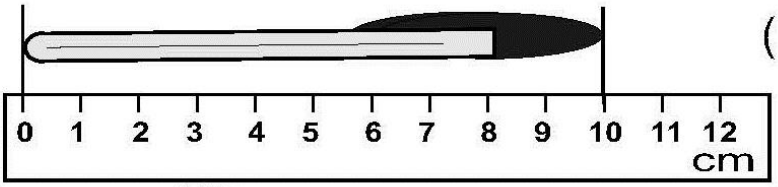

(10)centímetros

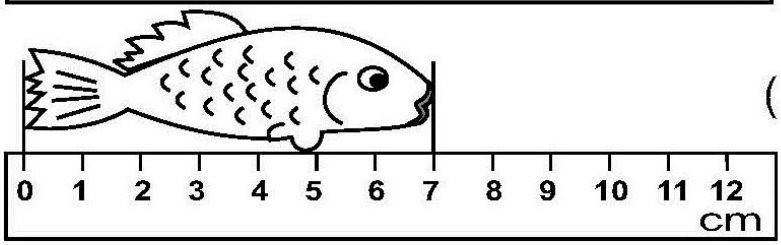

(7)centímetros

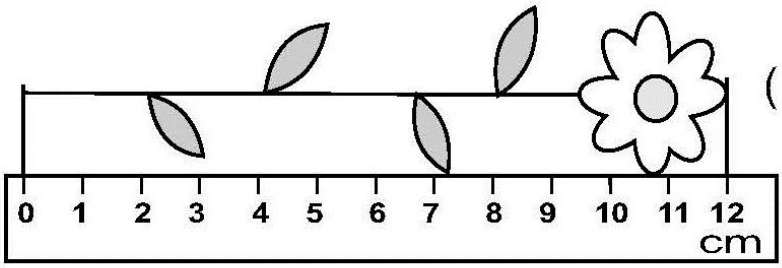

(12)centímetros

2 Rodea la unidad de medida más adecuada.

ejemplo

largo del lápiz

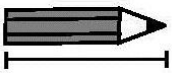

14 (centímetros / metros)

a) largo de libro

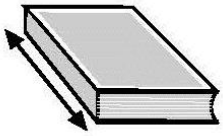

20 (centímetros / metros)

b) largo de aula



8 (centímetros / metros)

c) largo de la pizarra

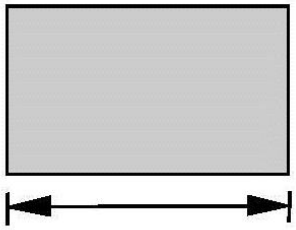

3 (centímetros / metros)

3 Mido el largo de cada línea. Utilizo regla.

a) (6)centímetros

b) (4)centímetros

c) (7)centímetros

Marca con una cruz la casilla donde está la respuesta correcta

¿Cuál mide más de un metro?

		X	

¿Cuál mide menos de un metro?

			X

¿Cual mide menos de un metro?



	X		

¿Cuál mide más de un metro?

			X

Ordena los siguientes objetos según se te indica

Ordena estos animales de mayor a menor tamaño.



4	6	1	5	3	2

Ordena estos animales de menor a mayor tamaño.

2	1	4	6	5	3