UN LUGAR LLENO DE VIDA

Mario es un fanático de los animales y ha consultado información sobre uno de los parques de animales más grandes. Cómo sabe que a su amiga Fátima también le gustan los animales ha compartido con ella la información y han empezado hacer planes para poder visitarlo cuando se pase el Coronavirus.

1. Mario le ha dado pistas para que adivine el nombre del parque. Le ha dicho que si junta las iniciales de los siguientes animales dará con el nombre.

   ARAÑA, NUTRIA, IGUANA, MARIPOSA, ABEJA, LORO, AVESTRUZ, NÉCORA, DROMEDARIO, IBIS y ÁGUILA

   ¿Cómo se llama el parque? _____

2. Escribe un sinónimo de la palabra subrayada en el primer texto: _____

3. Los chicos están ansiosos por ir así que se han metido en la página para ver la información sobre las fechas de apertura.

Julio							Agosto							Septiembre						
L	Ma	Mi	J	V	S	D	L	Ma	Mi	J	V	S	D	L	Ma	Mi	J	V	S	D
		1	2	3	4	5						1	2		1	2	3	4	5	6
6	7	8	9	10	11	12	3	4	5	6	7	8	9	7	8	9	10	11	12	13
13	14	15	16	17	18	19	10	11	12	13	14	15	16	14	15	16	17	18	19	20
20	21	22	23	24	25	26	17	18	19	20	21	22	23	21	22	23	24	25	26	27
27	28	29	30	31			24/31	25	26	27	28	29	30	28	29	30				

Fecha prevista de reapertura.

IMPORTANTE: Por motivos organizativos el parque solo abrirá de viernes a domingo.

Fátima ha propuesto ir el 11 de agosto que es su cumpleaños. ¿Pueden ir? ____

¿Por qué? _____

Y Mario ha propuesto el 4 de septiembre porque es el suyo. ¿Pueden ir? ____

¿Por qué? _____

4. Han pensado que podrían ir cada uno con sus papás e invitar a Elisa y Jaime que son sus amigos. Sabiendo que los niños tienen 9 años, ¿Cuánto costarán todas las entradas?

5. Uno de los lugares que les gustaría visitar dentro del parque es el acuario donde hay muchos, muchos peces.

En el acuario de la izquierda hay 168 peces. En el acuario de la derecha hay 19 peces menos que en el acuario de la izquierda. ¿Cuántos peces hay en total entre los dos acuarios?

6. Además el acuario tiene una sala de proyecciones que tiene 27 butacas en cada una de sus 18 filas. ¿Sabéis cuántas personas en total se pueden sentar en la sala?

7. La última semana que estuvo abierto el parque, antes del COVID-19, lo visitaron muchos grupos de visitantes.

Observa la tabla con los datos del número de grupos que visitaron.

	LUNES	MARTES	VIERNES	SÁBADO	DOMINGO
Número de grupos	16	28	40	32	36

Completa la siguiente gráfica de barras con los datos de la tabla.

8. En la página han visto que abren a las 9:45 de la mañana. ¿Qué reloj marca esa hora?

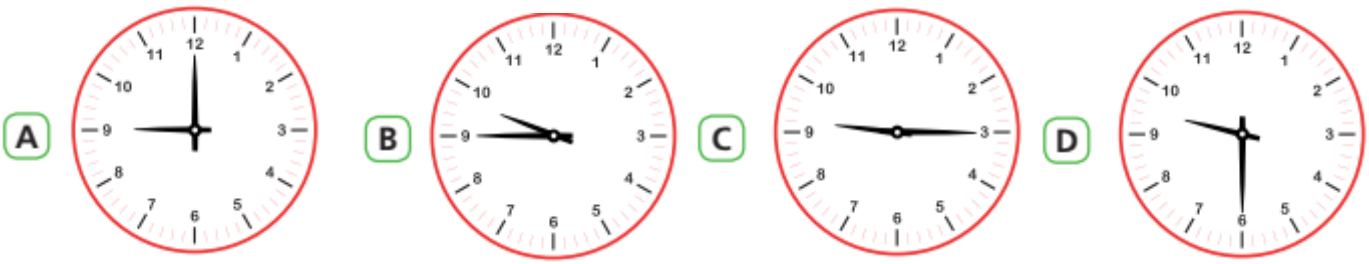

9. Observa las imágenes y el precio de algunos objetos que se venden en el parque.

Escribe el número de objetos que hay en cada una de las casillas de la siguiente tabla.

	Menos de 10 €	Entre 11 y 20 €	Más de 20 €
Libros			
Peluches			
Complementos			

10.Mario cuando vaya al parque se quiere comprar el libro de los animales del mundo y el peluche del pingüino. ¿Cuánto dinero le falta, si ahora tiene este dinero ahorrado?

11.El parque tiene un aparcamiento para bicicletas. Fíjate bien en la parte donde se coloca la rueda.

¿Cómo son entre sí las líneas verticales que se han destacado?

A. Perpendiculares.

B. Paralelas.

C. Secantes.

D. Perpendiculares y paralelas.

12.Dentro del parque hay zonas verdes muy bonitas para pasear y descansar.

Observa las imágenes.

¿A qué cuerpos geométricos se parecen?

A. Cono y triángulo.

B. Cilindro y pirámide.

C. Cilindro y triángulo.

D. Cono y pirámide.

13. Observa esta otra imagen y completa la tabla.



Nombre de la figura geométrica	Número de figuras en la imagen
Cuadrado	1

14. Todos los animales del parque tienen una ficha con información. Rellena la información de este animal.

NOMBRE: _____

GRUPO DE VERTEBRADO AL QUE PERTENECE:

_____

CUERPO CUBIERTO DE: _____

SE DESPLAZA: _____

¿VIVÍPARO U OVÍPARO? _____

SEGÚN SU ALIMENTACIÓN ES: _____

15. En la página web del parque han visto que hay un reto y es ordenar los animales de mayor a menor peso. ¿Les ayudas a resolverlo? Enumera del 1 al 3, siendo el 1 el de mayor peso y el 3 el de menor.

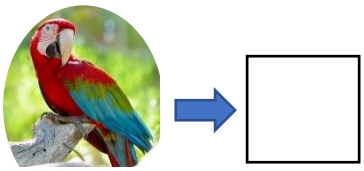

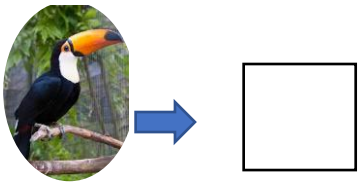

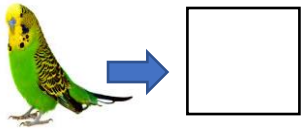

16. ¿Qué animal no pertenece al grupo de las aves rapaces? Rodea.

¿Por qué has elegido ese? _____